55 Calculer en ligne des produits

✔ Je sais calculer en ligne des produits.

Un jardinier a planté
5 rangées de 16 salades.
Combien de salades a-t-il plantées ?

5 x 16

5 x 10 + 5 x 6

50 + 30

80

5 x 16

C'est « 5 fois 10 plus 5 fois 6 ».

5 x 10 5 x 6



50 + 30

80

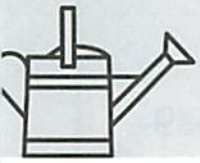

5 x 16 = 80

Le jardinier a planté 80 salades.

1 Effectue les calculs en ligne sans poser les opérations.
Tu peux faire les calculs en plusieurs étapes.

2 x 14 = ?

Je cherche.

2 x 14 = ...

3 x 17 = ?

Je cherche.

3 x 17 = ...

4 x 15 = ?

Je cherche.

4 x 15 = ...

2 x 64 = ?

Je cherche.

2 x 64 = ...

Observe et complète.

278	378	478	.....	.....	.....	.....	.....

.....	.....	.....	506	606	706	.....	.....

2 Effectue les calculs en ligne sans poser les opérations.
Tu peux faire les calculs en plusieurs étapes.

$2 \times 34 = ?$

Je cherche.

$2 \times 34 =$ .....

$3 \times 32 = ?$

Je cherche.

$3 \times 32 =$ .....

$5 \times 103 = ?$

Je cherche.

$5 \times 103 =$ .....

$3 \times 221 = ?$

Je cherche.

$3 \times 221 =$ .....

$2 \times 423 = ?$

Je cherche.

$2 \times 423 =$ .....

$5 \times 112 = ?$

Je cherche.

$5 \times 112 =$ .....

3 Calcule en ligne dans ton cahier.

a) 3×34
b) 5×61
c) 4×52
d) 2×324
e) 3×212
f) 5×108
g) 4×121
h) 5×157
i) 2×453
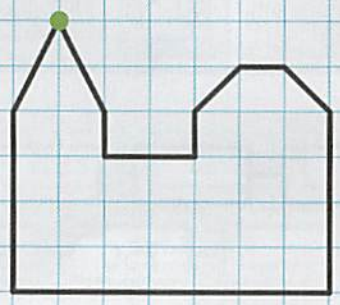
Reproduis la figure.