56 Poser et calculer des additions en colonnes

✔ Je sais poser et calculer des additions en colonnes.

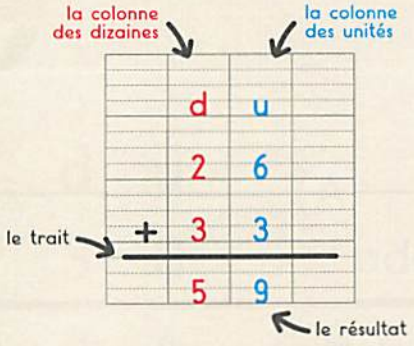

Pour calculer 26+33

- J'écris les unités sous les unités et les dizaines sous les dizaines.
- J'additionne d'abord les unités.
- J'additionne ensuite les dizaines.

26+33=59

1 Lola a planté 35 fleurs dans la cour de l'école. Sami en a planté 24.
Combien de fleurs ont-ils plantées en tout?
Complète le tableau et calcule.

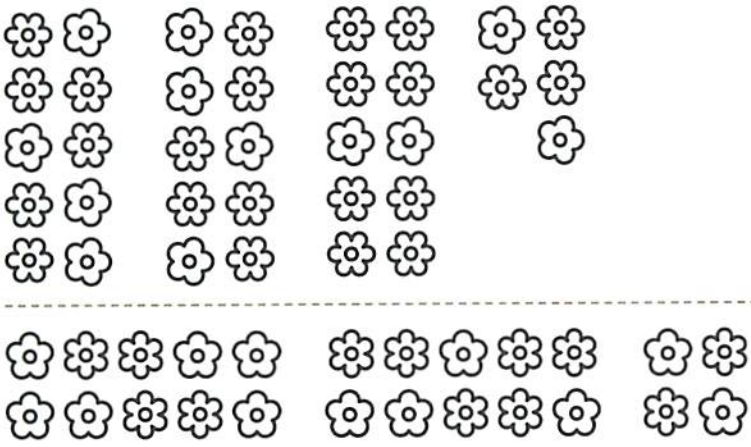

	d	u
	.	.
	.	.
+		
	.	.

Je réponds.

Reproduis le modèle.

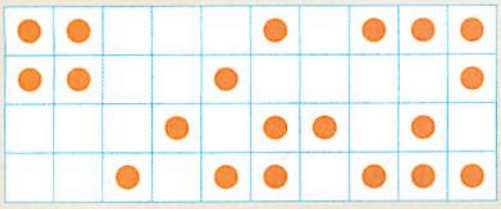

2 Pose l'opération et calcule.

24+52

	d	u
	.	.
+	.	.
	.	.

32+16

	d	u
	.	.
+	.	.
	.	.

13+54

	d	u
	.	.
+	.	.
	.	.

3 Pose l'opération et calcule.

14+45

	d	u
	1	4
+	4	5
	5	9

36+51

	d	u
	.	.
+	.	.
	.	.

62+17

	d	u
	.	.
+	.	.
	.	.

71+28

	d	u
	.	.
+	.	.
	.	.

43+35

	d	u
	.	.
+	.	.
	.	.

25+52

	d	u
	.	.
+	.	.
	.	.

Il y a deux lapins gris de plus que de lapins blancs. Colorie les lapins gris.