En tout, il y a 23 chevaux.
16 chevaux sont restés à l'écurie.

Combien de chevaux sont sortis dans le pré ?



Je complète le schéma.

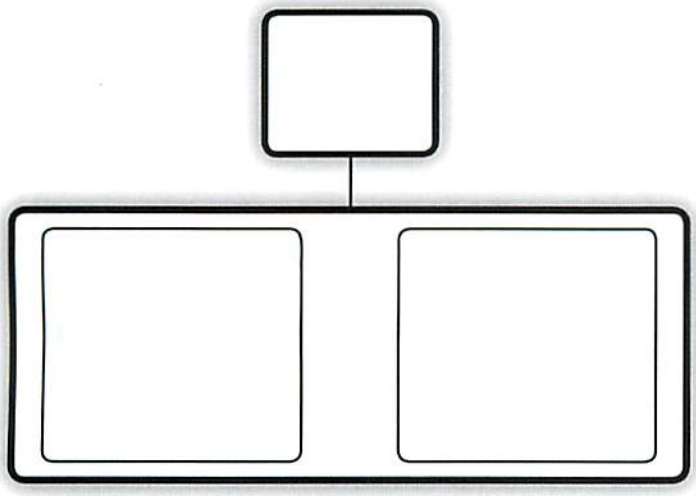

Je cherche.

Je réponds.

59A

Prénom

Date

Maths au CP
Nombres et calculs

6 chevaux sont à l'intérieur de l'écurie. 11 chevaux sont dans le pré. Combien y a-t-il de chevaux en tout ?

Je compète le schéma.

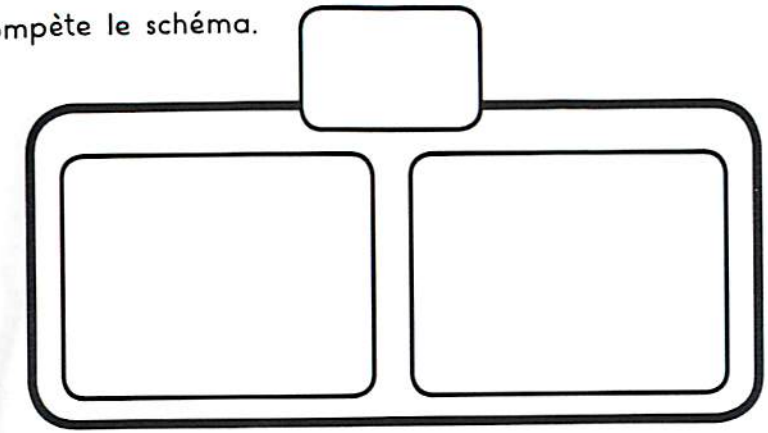

Je calcule.

J'écris la réponse.

59B

Prénom

Date

Maths au CP
Nombres et calculs

En tout il y a 24 chevaux.
Combien sont restés dans l'écurie ?

Je fais un schéma.

J'écris un calcul.

J'écris la réponse.

Prénom .....

Date .....
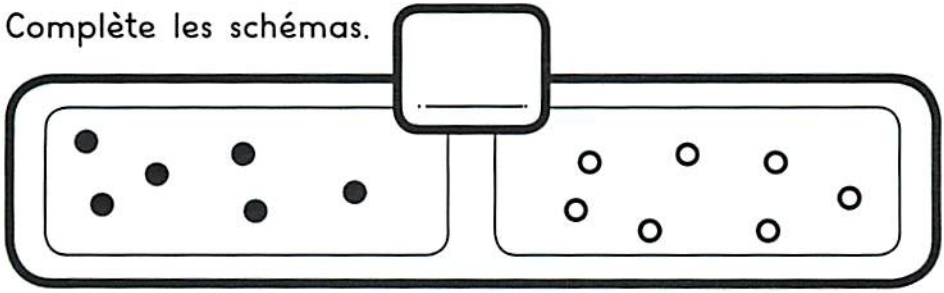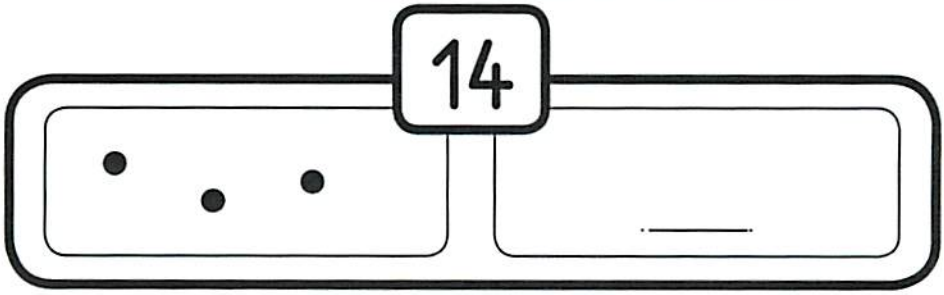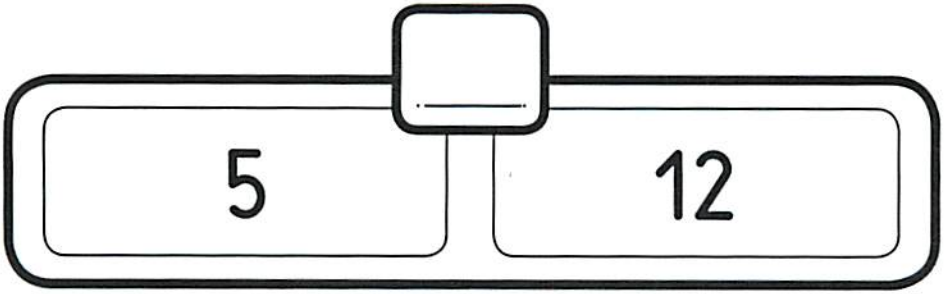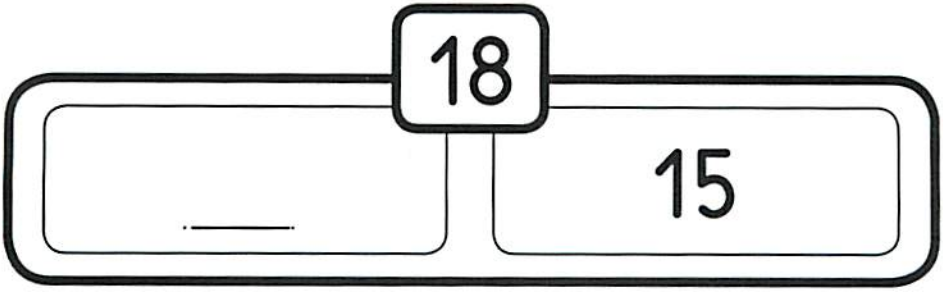
Complète les schémas.