Géométrie

Fiche 1

Les solides

1 Je colorie les figures qui sont des solides

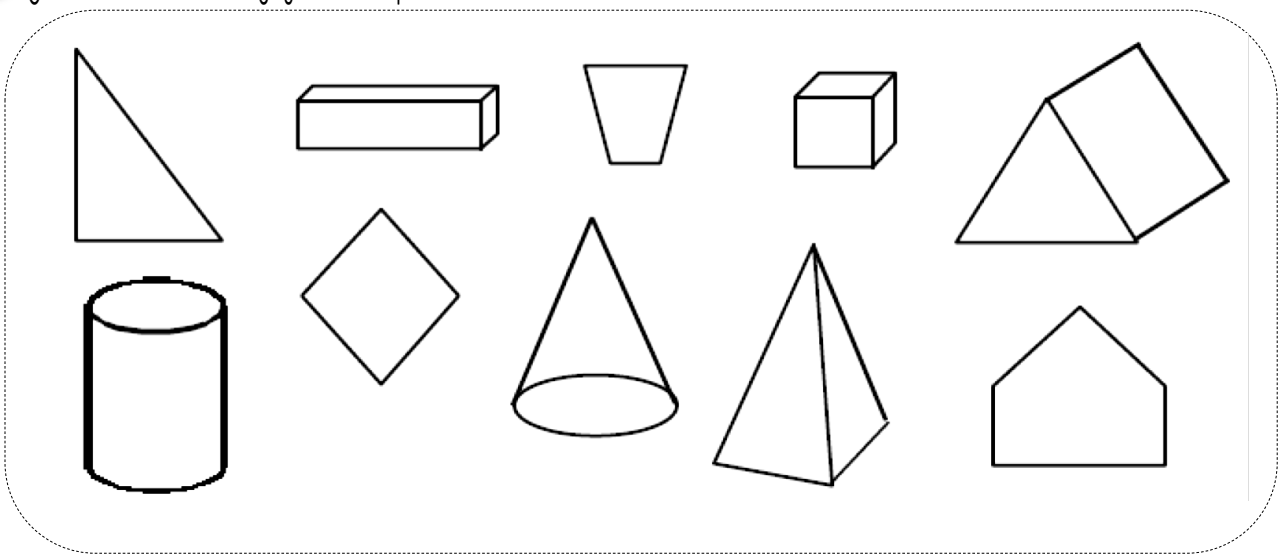

2 Je relie les objets à leurs empreintes.



Bontdesomme.eklablog.com



Géométrie

Fiche 3

Les solides

1 Je découpe puis je classe ces objets en fonction de leur forme.

cube	pavé	cylindre	pyramide	sphère	cône

2 J'entoure, dans le tableau, les objets qui peuvent rouler.

Boutdegomme.eklablog.com



Géométrie

Fiche 4

Les solides

1 Je barre les solides qui ne roulent pas.

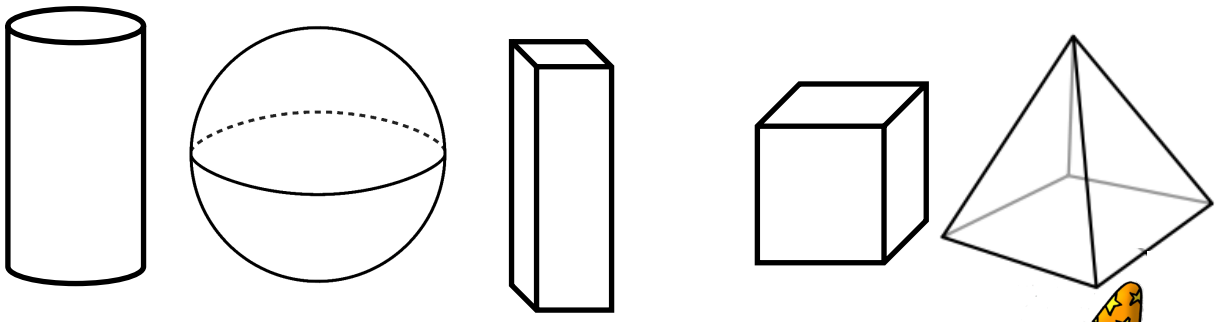



2 Je compte le nombre de faces de chaque solide

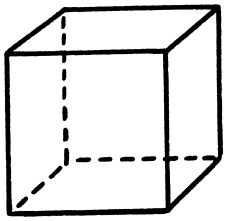

_____ faces

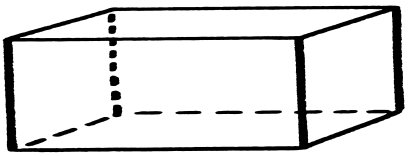

_____ faces

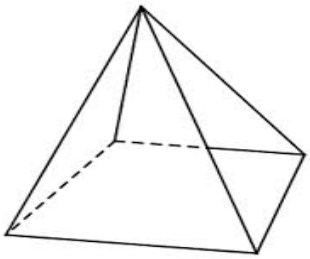

_____ faces

3 Je marque les sommets en bleu et je compte leur nombre pour chaque solide.

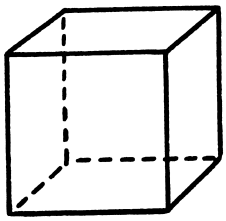

_____ sommets

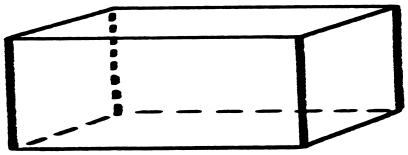

_____ sommets

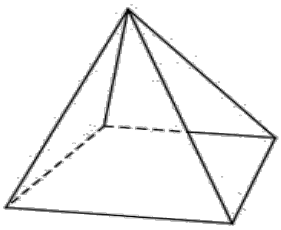

_____ sommets

Boutdegomme-ekiabolos.com



Géométrie

Fiche 6

Les solides : le cube

1 Je compte le nombre de sommets, de faces. Je complète la définition.



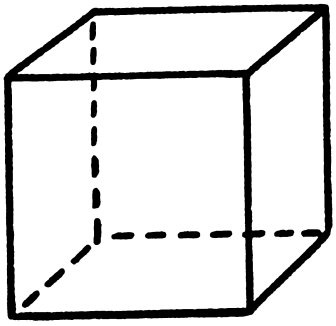

Nombres de faces : _____

Nombre de sommets : _____

Nombre d'arêtes: _____

Un cube a _____ faces, _____ sommets et _____ arêtes.

Toutes ses faces sont des _____.

2 J'entoure tous les cubes.





pourdesgomme.eklablog.com



Géométrie

Fiche 9

Les solides : le pave



1 Je compte le nombre de sommets, de faces. Je complète la définition.

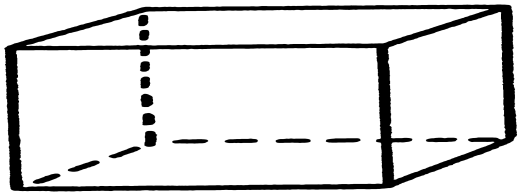

Nombres de faces : _____

Nombre de sommets : _____

Nombre d'arêtes:

Un pavé a _____ faces, _____ sommets et _____ arêtes.

Toutes ses faces sont des _____ ou des _____.

2 J'entoure tous les pavés.

Boutdegomme.eklablog.com